「様々な気象要素～前線のしくみを考えよう」理科学習プリント

組　　番　氏名 _____

課題	

・寒冷前線が通過するときや通過する前後に起こる変化を見つけよう。

・寒冷前線が山口市を通過したのは何時頃から何時頃の間と考えられるか。

(　　)時頃から(　　)時頃

・山口市を寒冷前線が通過しているとき、雲の広がり、雨の降る範囲を平面図と断面図で表そう。
・寒冷前線の進む向きを(　　)に矢印で示そう。
・大気の(　　)には暖かい、冷たいのどちらかを書き入れよう。

※右の図は断面図の位置を示したものです。

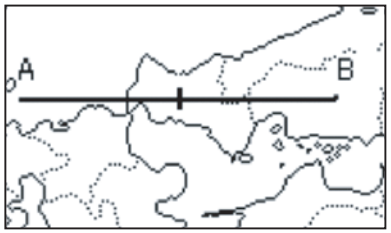

(　　)時の天気図

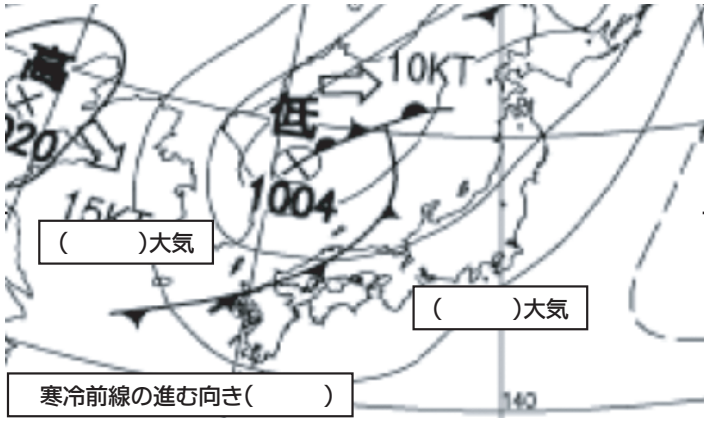

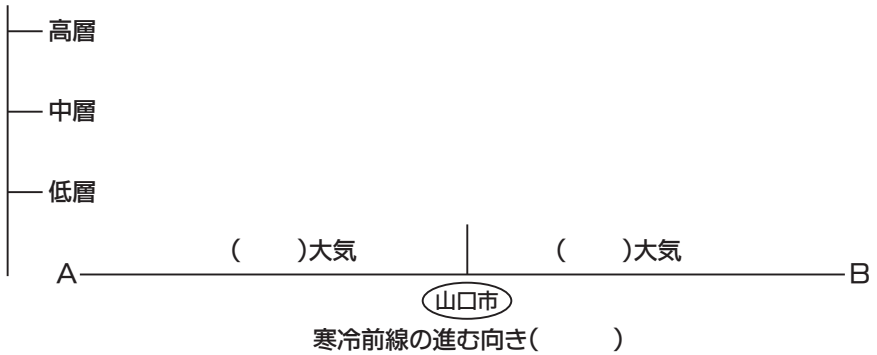

・今日の授業の感想